UNIVERSIDAD DE GUANAJUATO
DCNyE Dpto. DE QUÍMICA

1er EXAMEN PARCIAL
Recuperación
HETEROCÍCLICA

D.C. César Rogelio Solorio Alvarado

Nombre:_____ 9/ Octubre / 2015

Conforme a la nomenclatura Hanztsch-Widman nombra los siguientes compuestos.
Cada Pregunta vale **1 pto**

1

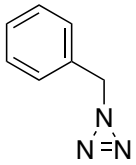

2

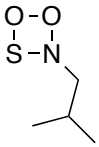

3

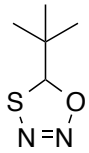

4

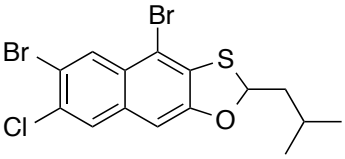

5

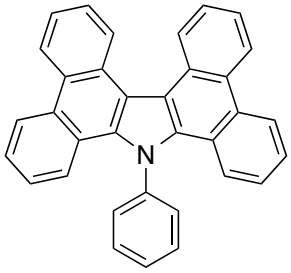

Ilustra en el recuadro la estructura que corresponda al producto correcto de la reacción indicada.
En las preguntas 6 y 7 desarrolla la estructura que corresponde al acrónim.
Cada recuadro vale **1 pto**

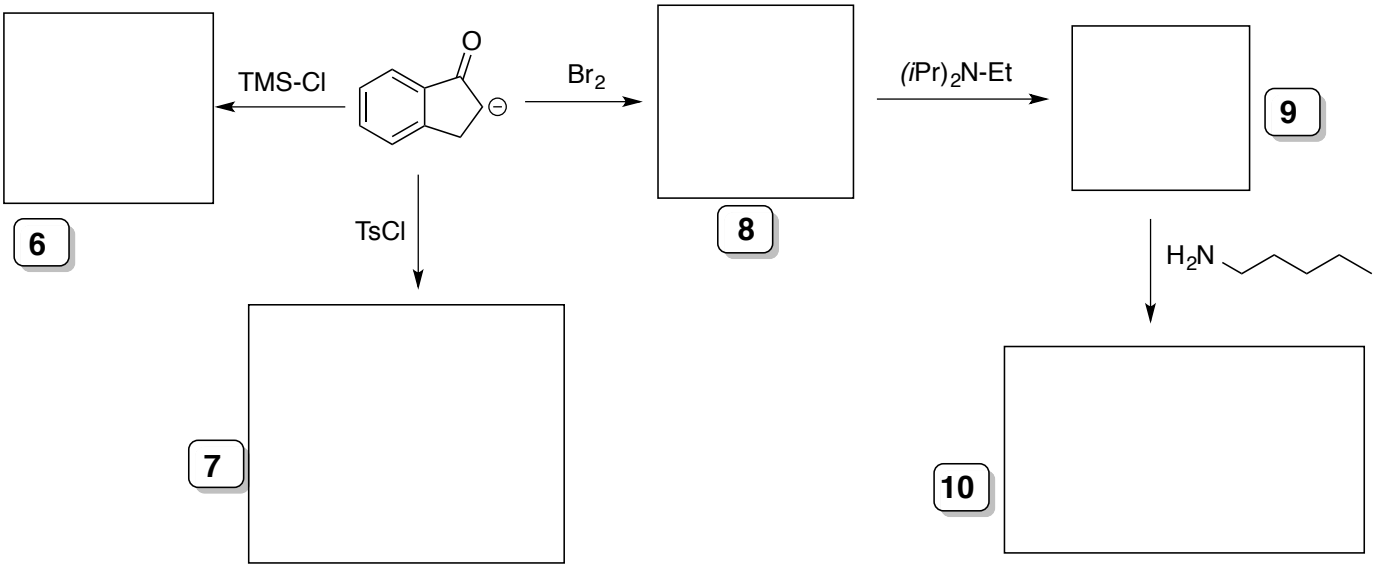

(**0.5 pts extra**) Fué el presidente que usando la fuerza militar sofocó el moviento estudiantil en 1968, asesinando a cientos de estuidantes